الجمهورية الجزائرية الديمقراطية الشعبية

وزارة التربية الوطنية — الديوان الوطني للامتحانات والمسابقات

امتحان بكالوريا التعليم الثانوي — دورة: جوان 2010

الشعبة: علوم تجريبية

اختبار في مادة: العلوم الفيزيائية — المدة: 03 ساعات ونصف

على المترشح أن يختار أحد الموضوعين التاليين

الموضـــوع الأول

التمرين الأول: (04 نقاط)

لمتابعة التطور الزمني للتحول الكيميائي الحاصل بين محلول حمض كلور الهيدروجين ومعدن الزنك، الذي يُنمذَجُ بتفاعل كيميائي ذي المعادلة: $Zn(s) + 2H^+(aq) = Zn^{2+}(aq) + H_2(g)$

ندخل في اللحظة $t = 0$ كتلة $m = 1,0\ g$ من معدن الزنك في دورق به $V = 40\ mL$ من محلول حمض كلور الهيدروجين تركيزه المولي $C = 5,0\times10^{-1}\ mol.L^{-1}$.

نعتبر حجم الوسط التفاعلي ثابتا خلال مدة التحول وأن الحجم المولي للغاز في شروط التجربة:

$$V_M = 25L.mol^{-1}$$

نقيس حجم غاز ثنائي الهيدروجين V_{H_2} المنطلق في نفس الشرطين من الضغط ودرجة الحرارة، ندون النتائج في الجدول التالي:

$t(s)$	0	50	100	150	200	250	300	400	500	750
$V_{H_2}(mL)$	0	36	64	86	104	120	132	154	170	200
$x(mol)$										

1- أنجز جدولا لتقدم التفاعل واستنتج العلاقة بين التقدم x وحجم غاز ثنائي الهيدروجين المنطلق V_{H_2}.

2- أكمل الجدول أعلاه.

3- مثّل البيان $x = f(t)$ باعتماد سلم الرسم التالي:

$$1cm \rightarrow 100s$$

$$1cm \rightarrow 1,0\times10^{-3}mol$$

4- احسب قيمة السرعة الحجمية للتفاعل في اللحظتين: $t_1 = 100s$; $t_2 = 400s$

كيف تتطور هذه السرعة مع الزمن؟ علل.

5- إن التحول الكيميائي السابق تحول تام:

أ/ احسب التقدم الأعظمي x_{max} واستنتج المتفاعل المحد.

ب/ عرّف زمن نصف التفاعل $t_{1/2}$ وأوجد قيمته.

يُعطى: $M_{(Zn)} = 65\ g.mol^{-1}$

الجديد و الحصري فقط على موقع الأستاذ Lotphilosophie
sites.google.com/site/lotphilosophie

التمرين الثاني: (04 نقاط)

يوجد عنصر الكربون في دورته الطبيعية على شكل نظيرين مستقرين هما الكربون 12 والكربون 13 ونظير مشع (غير مستقر) هو الكربون 14 ، والذي يبلغ زمن نصف عمره $t_{1/2} = 5570\ ans$.

المعطيات: الكربون 12: ${}^{12}_{6}C$ ، الكربون 13: ${}^{13}_{6}C$ ، الآزوت 14: ${}^{14}_{7}N$.

1- أعط تركيب نواة الكربون 14.

2- أ/ إن قذف نواة الآزوت بنيترون هو تحول نووي يعبر عنه بالمعادلة التالية:

$${}^{14}_{7}N + {}^{1}_{0}n \rightarrow {}^{A}_{Z}Y_1 + {}^{1}_{1}H$$

بتطبيق قانوني الانحفاظ حدد النواة ${}^{A}_{Z}Y_1$.

ب/ إن تفكك نواة الكربون 14 يعطي نواة إبن ${}^{A'}_{Z'}Y_2$ وجسيم β^-. اكتب معادلة التفاعل النووي الموافق واذكر اسم العنصر Y_2.

3- يُعطى قانون التناقص الإشعاعي بالعلاقة : $N(t) = N_0\ e^{-\lambda t}$

أ/ ماذا تمثل المقادير التالية: $N(t)$; N_0 ; λ ؟

ب/ بين أن : $\lambda = \dfrac{ln\,2}{t_{1/2}}$.

ج/ أوجد وحدة λ باستعمال التحليل البعدي.

د/ احسب القيمة العددية للمقدار λ المميز للكربون 14.

4- سمح تأريخ قطعة من الخشب القديم كتلتها $m(g)$ اكتشفت عام 2000، بمعرفة النشاط A لهذه العينة والذي قدر بـــ 11,3 تفككاً في الدقيقة، في حين قدر النشاط A_0 لعينة حية مماثلة بـــ 13,6 تفككا في الدقيقة.

اكتب عبارة $A(t)$ بدلالة : A_o و λ و t ثم احسب عمر قطعة الخشب القديم ، وما هي سنة قطع الشجرة التي انحدرت منها؟

التمرين الثالث: (04 نقاط)

نريد تعيين (L, r) مميزتي وشيعة، نربطها في دارة كهربائية على التسلسل مع:

- مولد كهربائي ذي توتر كهربائي ثابت $E = 6\ V$.
- ناقل أومي مقاومته $R = 10\ \Omega$.
- قاطعة k (الشكل-1) .

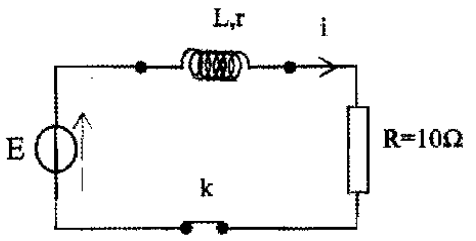

الشكل-1

1- نغلق القاطعة k ، اكتب عبارة كل من:

u_R: التوتر الكهربائي بين طرفي الناقل الأومي R.

u_b : التوتر الكهربائي بين طرفي الوشيعة.

2- بتطبيق قانون جمع التوترات، أوجد المعادلة التفاضلية للتيار الكهربائي $i(t)$ المار في الدارة.

3- بيّن أن المعادلة التفاضلية السابقة تقبل حلاً من الشكل: $i(t) = \dfrac{E}{R+r}(1 - e^{-\frac{(R+r)}{L}t})$.

الجديد و الحصري فقط على موقع الأستاذ Lotphilosophie
sites.google.com/site/lotphilosophie

4- مكنت الدراسة التجريبية بمتابعة تطور شدة التيار الكهربائي المار في الدارة ورسم البيان الممثل له في (الشكل-2).

بالاستعانة بالبيان احسب:

أ- المقاومة r للوشيعة.

ب- قيمة τ ثابت الزمن، ثم استنتج قيمة L ذاتية الوشيعة.

5- احسب قيمة الطاقة الكهربائية المخزنة في الوشيعة في حالة النظام الدائم.

الشكل-2

التمرين الرابع: (04 نقاط)

المحاليل المائية مأخوذة في الدرجة $25°C$.

لأجل تعيين قيمة التركيز المولي لمحلول مائي (S_0) لحمض الميثانويك $HCOOH(aq)$ نحقق التجربتين التاليتين:

التجربة الأولى: نأخذ حجما $V_0 = 20mL$ من المحلول (S_0)، ونمدده 10 مرات (أي إضافة $180mL$ من الماء المقطر) لنحصل على محلول (S_1).

التجربة الثانية: نأخذ حجما $V_1 = 20mL$ من المحلول الممدد (S_1) ونعايره بمحلول مائي لهيدروكسيد الصوديوم $\left(Na^+(aq) + HO^-(aq)\right)$ تركيزه المولي $C_b = 0,02mol \times L^{-1}$.

أعطت نتائج المعايرة البيان (الشكل-3).

1- اشرح باختصار كيفية تمديد المحلول (S_0) وما هي الزجاجيات الضرورية لذلك؟

2- اكتب معادلة التفاعل المنمذج للتحول الكيميائي الحادث أثناء المعايرة.

3- عين بيانيا إحداثيي نقطة التكافؤ، واستنتج التركيز المولي للمحلول الممدد (S_1).

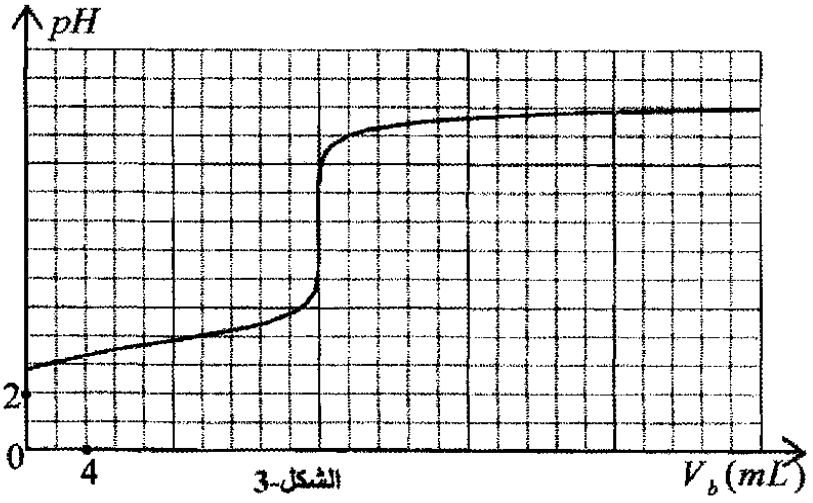

الشكل-3

4- اوجد بالاعتماد على البيان القيمة التقريبية لثابت الحموضة K_A للثنائية $\left(HCOOH(aq)/HCOO^-(aq)\right)$.

5- استنتج قيمة التركيز المولي للمحلول الأصلي (S_0).

الجديد و الحصري فقط على موقع الأستاذ Lotphilosophie
sites.google.com/site/lotphilosophie

التمرين التجريبي: (04 نقاط)

قام فوج من التلاميذ في حصة للأعمال المخبرية بدراسة السقوط الشاقولي لجسم صلب (S) في الهواء، وذلك باستعمال كاميرا رقمية (Webcam)، عولج شريط الفيديو ببرمجية "Avistep" بجهاز الإعلام الآلي فتحصلوا على البيان $v = f(t)$ الذي يمثل تغيرات سرعة مركز عطالة (S) بدلالة الزمن (الشكل-4).

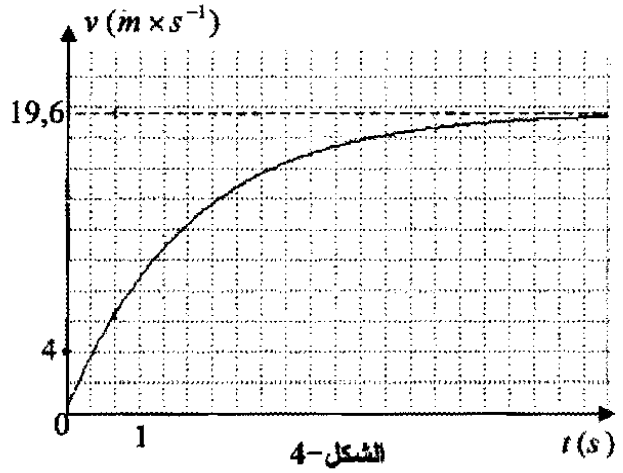

الشكل-4

1- حدد طبيعة حركة مركز عطالة الجسم (S) في النظامين الانتقالي والدائم. علل.

2- بالاعتماد على البيان عين:

أ/ السرعة الحدية v_{lim} .

ب/ تسارع الحركة في اللحظة $t=0$.

3- كيف يكون الجسم الصلب (S) متميزا وهذا للحصول على حركة مستقيمة شاقولية انسحابية في نظامين انتقالي ودائم؟

4- باعتبار دافعة أرخميدس مهملة، مثل القوى المؤثرة على الجسم (S) أثناء السقوط، واستنتج عندئذ المعادلة التفاضلية للحركة بدلالة السرعة v في حالة السرعات الصغيرة.

5- توقع شكل مخطط السرعة عند إهمال دافعة أرخميدس و مقاومة الهواء. علل.

الجديد و الحصري فقط على موقع الأستاذ Lotphilosophie
sites.google.com/site/lotphilosophie

الموضـــوع الثاني

التمرين الأول: (04 نقاط)

عثر العمال أثناء الحفريات الجارية في بناء مجمعات سكنية على جمجمتين بشريتين إحداهما (a) سليمة والثانية (b) مهشمة جزئياً. اقترح العمال فرضيتان:

- يَرَى الفريق الأول أن الجمجمتين لشخصين عاشا في نفس الحقبة الزمنية.
- يَرَى الفريق الثاني أن العوامل الطبيعية كانجراف التربة والانكسارات الصخرية جمعت الجمجمتين، رغم أنهما لشخصين عاشا في حقبتين مختلفتين(تقدر الحقبة بـــ 70سنة) .

تَدَخَّلَ فريق ثالث (خبراء علم الآثار) للفصل في القضية معتمداً النشاط الإشعاعي للكربون ^{14}C.

علماً بأن المادة الحية يتجدد فيها الكربون ^{14}C المشع لجسيمات (β^-) باستمرار، وبعد الوفاة تتوقف هذه العملية.

أخذ الفريق الثالث عينة من كل جمجمة(العينتان متساويتان في الكتلة) وقاس نشاطهما الإشعاعي حيث كانت النتيجتين على الترتيب : $A_{(a)} = 5000Bq$ و $A_{(b)} = 4500Bq$. علماً أن نشاط عينة حديثة مماثلة لهما هو $A_0 = 6000Bq$ ، ونصف عمر ^{14}C هو $t_{1/2} = 5570ans$.

1/ اكتب معادلة تفكك الكربون $^{14}_{6}C$ ، وتعرف على النواة الإبن (غير المثارة) من بين الأنوية التالية: $^{16}_{8}O$ أو $^{14}_{7}N$ أو $^{19}_{9}F$.

2/ اكتب علاقة النشاط $A(t)$ للعينة بدلالة: A_0 , t , $t_{1/2}$.

3/ كيف حسم الفريق الثالث في القضية ؟

4/ احسب بالإلكترون فولط وبالجول طاقة ربط نواة الكربون 14 .

يعطى:

$m_p = 1,00728u$ ، $1MeV = 1,6\times10^{-13}J$ ، $1u = 931,5MeV \times C^{-2}$

$m_n = 1,00866u$ ، $1eV = 1,6\times10^{-19}J$ ، $m_{^{14}_{6}C} = 14,00324\,u$

التمرين الثاني: (04 نقاط)

يتكون مشروب غازي من غاز ثنائي أكسيد الكربون CO_2 منحل في الماء والسكر وحمض البنزويك ذو الصيغة C_6H_5COOH. يريد أحد التلاميذ إجراء عملية معايرة لمعرفة التركيز المولي C_a للحمض في هذا المشروب، ولأجل ذلك يأخذ منه حجما قدره $V_a = 50mL$ بعد إزالة غاز CO_2 عن طريق رجه جيدا ويضعه في بيشر ثم يعـــايره بواســـطة محلـــول هيدروكـــسيد الـــصوديوم $(Na^+(aq) + HO^-(aq))$ ذي التركيـــز المـــولي $C_b = 1,0\times10^{-1}mol.L^{-1}$.

1- من أجل كل حجم V_b لهيدروكسيد الصوديوم المضاف يسجل التلميذ في كل مرة قيمة pH المحلول عند الدرجة $25^\circ C$ باستعمال مقياس الـــ pH متر فتمكن من رسم المنحنى البياني $pH = f(V_b)$ (الشكل-1).

الجديد و الحصري فقط على موقع الأستاذ Lotphilosophie
sites.google.com/site/lotphilosophie

باعتبار حمض البنزويك الحمض الوحيد في المشروب الغازي.

أ- اكتب المعادلة الكيميائية المعبرة عن التفاعل المنمذج للتحول الكيميائي الحاصل خلال المعايرة.

ب- حدّد بيانيا إحداثيي نقطة التكافؤ E.

جـ- استنتج التركيز المولي C_a لحمض البنزويك.

2- من أجل حجم $V_b = 10,0\ mL$ لهيدروكسيد الصوديوم المضاف:

أ- انشئ جدولا لتقدم التفاعل.

ب- أوجد كمية مادة كل من شوارد الهيدرونيوم $(H_3O^+(aq))$ وجزيئات حمض البنزويك المتبقية في الوسط التفاعلي مستعينا بجدول التقدم.

3- ما هو الكاشف المناسب لمعرفة نقطة التكافؤ من بين الكواشف المذكورة في الجدول أدناه مع التعليل ؟

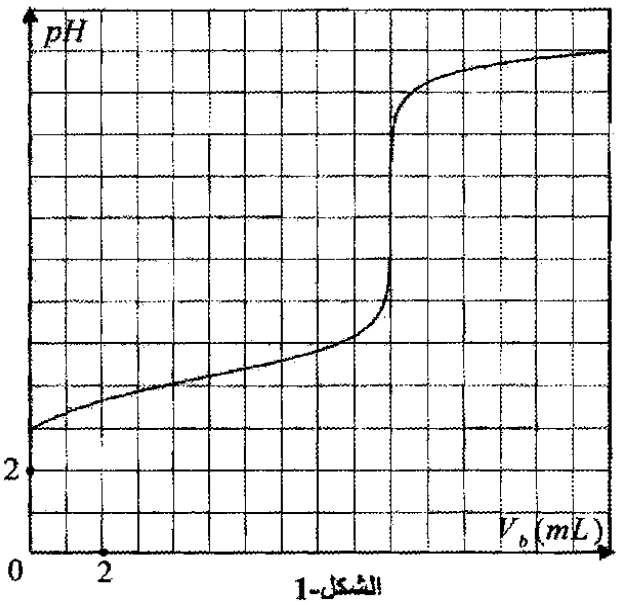

الشكل-1

اسم الكاشف	مجال التغير اللوني pH
أحمر الميثيل	6,2 – 4,2
أزرق البروموتيمول	7,6 – 6,0
الفينول فتاليين	10,0 – 8,0

التمرين الثالث: (04 نقاط)

نحقق دارة كهربائية على التسلسل تتكون من :

- مولد ذو توتر كهربائي ثابت $E = 5V$.
- ناقل أومي مقاومته $R = 100\ \Omega$.
- مكثفة سعتها C.
- قاطعة k.

نوصل طرفي المكثفة B, A إلى واجهة دخول لجهاز إعلام آلي وعولجت المعطيات ببرمجية "Microsoft Excel" وتحصلنا على المنحنى البياني: $u_c = u_{AB} = f(t)$ (الشكل-2).

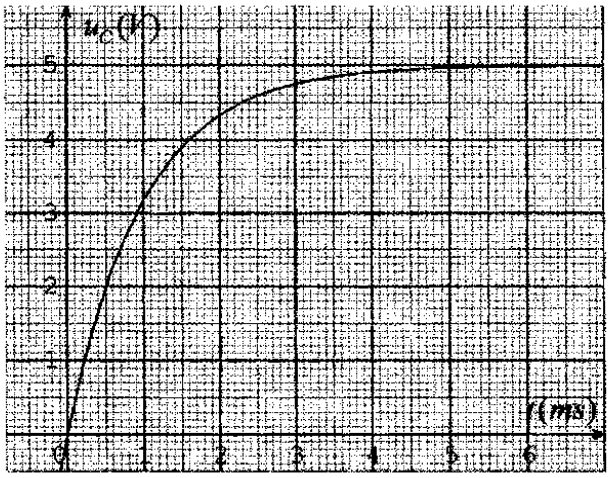

الشكل-2

1/ اقترح مخططاً للدارة موضحاً اتجاه التيار ثم مثّل بسهم كلا من التوترين u_R و u_c.

2/ عين قيمة ثابت الزمن τ للدارة وما مدلوله الفيزيائي؟ استنتج قيمة سعة المكثفة C.

3/ احسب شحنة المكثفة عند بلوغ الدارة للنظام الدائم.

4/ لو استبدلنا المكثفة السابقة بمكثفة أخرى سعتها $C' = 2\,C$، ارسم، كيفياً، في نفس المعلم السابق شكل المنحنى $u_{c'} = g(t)$ الذي يمكن مشاهدته على شاشة الجهاز. مع التعليل .

الجديد و الحصري فقط على موقع الأستاذ Lotphilosophie
sites.google.com/site/lotphilosophie

التمرين الرابع: (04 نقاط)

تؤخذ $g=10m\times s^{-2}$ ، مقاومة الهواء ودافعة أرخميدس مهملتان.

لتنفيذ مخالفة خلال مباراة في كرة القدم ، وضع اللاعب الكرة في النقطة O مكان وقوع الخطأ (نعتبر الكرة نقطية) على بعد $d=25m$ من خط المرمى، حيث ارتفاع العارضة الأفقية $h=AB=2,44m$.

يقذف اللاعب الكرة بسرعة ابتدائية $\vec{v}_0$ يصنع حاملها مع الأفق زاوية $\alpha=30°$ (الشكل-3).

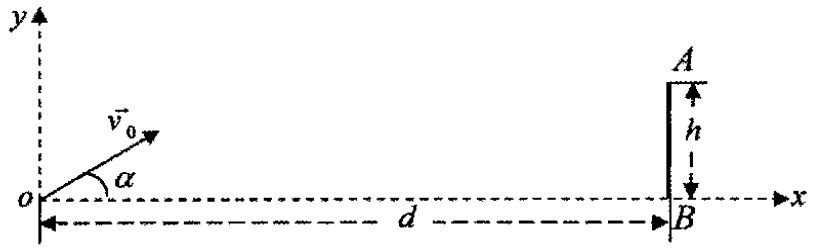

الشكل-3

1/ ادرس طبيعة حركة الكرة في المعلم $(\vec{ox},\vec{oy})$ بأخذ مبدأ الأزمنة لحظة القذف، استنتج معادلة المسار $y=f(x)$.

2/ كم يجب أن تكون قيمة $\vec{v}_0$ حتى يُسَجَّلَ الهدف مماسياً للعارضة الأفقية (النقطة A) ؟ ما هي المدة الزمنية المستغرقة ؟ وما هي قيمة سرعتها عند (النقطة A)؟

3/ كم يجب أن تكون قيمة $\vec{v}_0'$ حتى يُسَجَّلَ الهدف مماسياً لخط المرمى (النقطة B) ؟

التمرين التجريبي: (04 نقاط)

نأخذ عينة من منظف طبي للجروح عبارة عن سائل يحتوي أساسا على ثنائي اليود $I_2(aq)$ تركيزه المولي C_0.

نضيف إليها قطعة من الزنك $Zn(s)$ فنلاحظ تناقص الشدة اللونية للمنظف.

1- اكتب معادلة التفاعل المنمذج للتحول الكيميائي الحادث، علما أن الثنائيتين الداخلتين في التفاعل هما:

$(I_2(aq)/I^-(aq))$ ، $(Zn^{2+}(aq)/Zn(s))$

2- **التجربة الأولى:** عند درجة الحرارة $20°C$ نضيف إلى حجم $V=50mL$ من المنظف قطعة من Zn ، ونتابع عن طريق المعايرة تغيرات $[I_2(aq)]$ بدلالة الزمن t فنحصل على البيان $[I_2(aq)]=f(t)$ (الشكل-4).

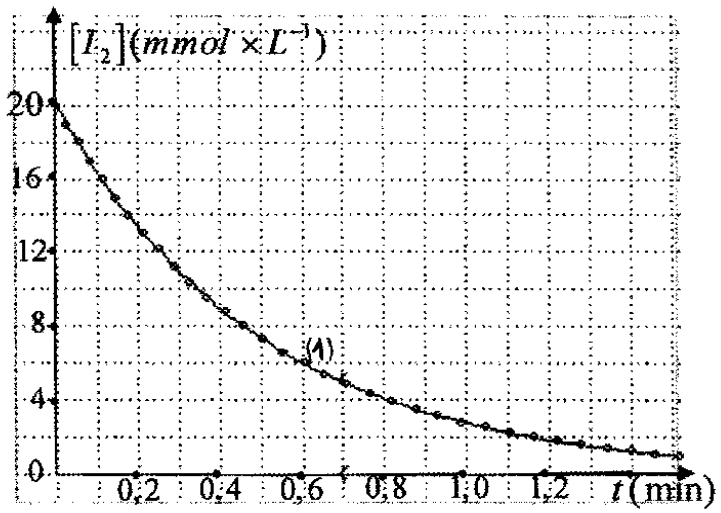

الشكل-4

أ- اقترح بروتوكولا تجريبيا للمعايرة المطلوبة مع رسم الشكل التخطيطي.

ب- عرف السرعة الحجمية لاختفاء I_2 مبينا طريقة حسابها بيانيا.

جـ- كيف تتطور السرعة الحجمية لاختفاء I_2 مع الزمن ؟ فسر ذلك .

3- **التجربة الثانية:** نأخذ نفس الحجم V من نفس العينة عند الدرجة $20°C$ ، نضعها في حوجلة عيارية سعتها $100mL$ ثم نكمل الحجم بواسطة

الجديد و الحصري فقط على موقع الأستاذ Lotphilosophie
sites.google.com/site/lotphilosophie

الماء المقطر إلى خط العيار ونسكب محتواها في بيشر ونضيف إلى المحلول قطعة من الزنك.

توقع شكل البيان (2) $[I_2] = g(t)$ وارسمه، كيفيا، في نفس المعلم مع البيان (1) للتجربة الأولى. علل.

4- **التجربة الثالثة:** نأخذ نفس الحجم V من نفس العينة، تُرفع درجة الحرارة إلى $80°C$، توقع شكل البيان(3) $[I_2] = h(t)$ وارسمه، كيفيا، في نفس المعلم السابق .

5- ما هي العوامل الحركية التي تبرزها هذه التجارب؟ ماذا تستنتج؟

الجديد و الحصري فقط على موقع الأستاذ Lotphilosophie
sites.google.com/site/lotphilosophie

الجمهورية الجزائرية الديمقراطية الشعبية

وزارة التربية الوطنية — الديوان الوطني للامتحانات والمسابقات

امتحان بكالوريا التعليم الثانوي — دورة جوان: 2010

الشعبة : علوم تجريبيـــــــــة

اختبار في مادة : العلوم الفيزيائية (خاص بالمكفوفين) المدة : 03 ساعات ونصف

على المترشح أن يختار أحد الموضوعين التاليين

الموضـــــوع الأول

التمرين الأول: (04 نقاط)

لمتابعة التطور الزمني للتحول الكيميائي الحاصل بين محلول حمض كلور الهيدروجين ومعدن الزنك ، الذي يُنَمْذَجُ بتفاعل كيميائي ذي المعادلة :

$$Zn(s) + 2H^{+}(aq) = Zn^{2+}(aq) + H_2(g)$$

ندخل في اللحظة $t = 0$ كتلة $m = 1,0\ g$ من معدن الزنك في دورق به $V = 40\ mL$ من محلول حمض كلور الهيدروجين تركيزه المولي $C = 0,50\ mol.L^{-1}$.

نعتبر حجم الوسط التفاعلي ثابتا خلال مدة التحول وأن الحجم المولي للغاز في شروط التجربة:

$$V_M = 25 L.mol^{-1}$$

نقيس حجم غاز ثنائي الهيدروجين V_{H_2} المنطلق في لحظات زمنية مختلفة وفي نفس الشرطين من الضغط ودرجة الحرارة:

$t(s)$: 0; 50; 100; 150; 200; 250; 300; 400; 500; 750

فكانت قيم الحجم V_{H_2} على الترتيب هي :

$V_{H_2}(mL)$: 0; 36; 64; 86; 104; 120; 132; 154; 170; 200

1- عبر عن كمية المادة في لحظة كيفية t واستنتج العلاقة بين التقدم x وحجم غاز ثنائي الهيدروجين المنطلق V_{H_2}.

2- احسب قيم التقدم x الموافقة للحظات الزمنية السابقة .

3- احسب قيمتي السرعة المتوسطة في المجالين $[50s,150s]$, $[300s,500s]$ ماذا تستنتج ؟

4- التحول الكيميائي السابق تحول تام :

أ/ احسب التقدم الأعظمي x_{max} وأوجد المتفاعل المحد.

ب/ عرف زمن نصف التفاعل $t_{1/2}$ واستنتج قيمة التقدم x الموافقة لذلك .

يُعطى: $M_{(Zn)} = 65\ g.mol^{-1}$

الجديد و الحصري فقط على موقع الأستاذ Lotphilosophie
sites.google.com/site/lotphilosophie

التمرين الثاني: (04 نقاط)

يوجد عنصر الكربون في دورته على شكل نظيرين مستقرين هما الكربون 12 والكربون 13 ونظير مشع(غير مستقر) هو الكربون 14، والذي يبلغ زمن نصف عمره $t_{1/2} = 5570\ ans$.

المعطيات: الكربون 12: ${}^{12}_{6}C$ ، الكربون 13: ${}^{13}_{6}C$ ، الآزوت 14: ${}^{14}_{7}N$.

1- أعط تركيب نواة الكربون 14.

2- أ/ إن قذف نواة الآزوت بنيترون هو تحول نووي يعبر عنه بالمعادلة التالية:

$${}^{14}_{7}N + {}^{1}_{0}n \rightarrow {}^{A}_{Z}Y_1 + {}^{1}_{1}H$$

بتطبيق قانوني الانحفاظ حدد النواة ${}^{A}_{Z}Y_1$

ب/ إن تفكك نواة الكربون 14 يعطي نواة الإبن ${}^{A'}_{Z'}Y_2$ وجسيم β^-. اكتب معادلة التفاعل النووي الموافق واذكر اسم العنصر Y_2 .

3- يُعطى قانون التناقص الإشعاعي بالعلاقة : $N(t) = N_0\ e^{-\lambda t}$

أ/ ماذا تمثل المقادير الفيزيائية : $N(t)$; N_0 ; λ ؟

ب/ بين أن: $\lambda = \dfrac{ln\,2}{t_{1/2}}$

ج/ أوجد وحدة λ باستعمال التحليل البعدي.

د/ احسب القيمة العددية للمقدار λ المميز للكربون 14.

4- سمح تأريخ قطعة من الخشب القديم كتلتها $m(g)$ اكتشفت عام 2000، بمعرفة النشاط A لهذه العينة والذي قدر بـــ 11,3 تفككاً في الدقيقة، في حين قدر النشاط A_0 لعينة حية مماثلة بـــ 13,6 تفككا في الدقيقة.

اكتب عبارة $A(t)$ بدلالة : A_0 و λ و t ثم احسب عمر قطعة الخشب القديم ، وما هي سنة قطع الشجرة التي انحدرت منها؟

التمرين الثالث: (04 نقاط)

نريد تعيين (L,r) مميزتي وشيعة، نربطها في دارة كهر بائية على التسلسل مع مولد كهربائي ذي توتر كهربائي ثابت $E = 6\ V$. ناقل أومي مقاومته $R = 10\ \Omega$. قاطعة k.

1- لحظة غلق الدارة اكتب عبارة: u_R (التوتر الكهربائي بين طرفي الناقل الأومي R) ، u_b (التوتر الكهربائي بين طرفي الوشيعة).

2- بتطبيق قانون جمع التوترات، أوجد المعادلة التفاضلية للتيار الكهربائي $i(t)$ المار في الدارة .

3- بين أن المعادلة التفاضلية السابقة تقبل حلاً من الشكل: $i(t) = \dfrac{E}{R+r}(1-e^{-\frac{(R+r)}{L}t})$.

4- مكنت الدراسة التجريبية بمتابعة تطور شدة التيار الكهربائي المار في الدارة بدلالة الزمن وتم الحصول على النتائج التالية : في اللحظة $t = 0ms$ كانت شدة التيار الكهربائي $i = 0A$

الجديد و الحصري فقط على موقع الأستاذ Lotphilosophie
sites.google.com/site/lotphilosophie

في اللحظة $t = t_{1/2} = 7ms$ تكون شدة التيار الكهربائي $i = 0,25A$

أ/ احسب شدة التيار الأعظمية واستنتج قيم r (مقاومة الوشيعة)، τ (ثابت الزمن)، L(ذاتية الوشيعة)

ب/ احسب قيمة الطاقة الكهربائية المخزنة في الوشيعة في حالة النظام الدائم.

التمرين الرابع: (04 نقاط)

المحاليل المائية مأخوذة في الدرجة $25°C$.

لأجل تعيين قيمة التركيز المولي لمحلول مائي (S_0) لحمض الميثانويك $(HCOOH(aq))$ نحقق التجربتين التاليتين:

التجربة الأولى: نأخذ حجما $V_0 = 20mL$ من المحلول (S_0)، و نمدده 10 مرات (أي بإضافة $180mL$ من الماء المقطر) لنحصل على محلول (S_1).

التجربة الثانية: نأخذ حجما $V_1 = 20mL$ من المحلول الممدد (S_1) و نعايره بمحلول مائي لهيدروكسيد الصوديوم $(Na^+(aq) + HO^-(aq))$ تركيزه المولي $C_b = 0.02mol \times L^{-1}$. أعطت نتائج المعايرة بالحصول على النتائج التالية:

عند إضافة حجم $V_b = 10mL$ من هيدروكسيد الصوديوم كانت قيمة $pH = pK_a = 3,8$

عند إضافة حجم $V_b = 20mL$ من هيدروكسيد الصوديوم كانت قيمة $pH = 8,0$

1- اشرح باختصار كيفية تمديد المحلول (S_0).

2- اكتب معادلة التفاعل المنمذج للتحول الكيميائي الحادث أثناء المعايرة.

3- باستغلال نتائج المعايرة حدد إحداثيي نقطة التكافؤ، واستنتج التركيز المولي للمحلول الممدد (S_1).

4- أوجد بالاعتماد على نتائج المعايرة المتحصل عليها قيمة ثابت الحموضة K_A للثنائية $(HCOOH(aq)/HCOO^-(aq))$.

5- استنتج قيمة التركيز المولي للمحلول الأصلي (S_0).

التمرين التجريبي: (04نقاط)

سمحت دراسة حركة السقوط الشاقولي لجسم صلب (S) في الهواء وفي معلم مرتبط بمرجع أرضي نعتبره غاليلياً، بتحديد قيم سرعة المتحرك في اللحظات التالية: $0s$; $2,5s$; $10s$; $12\ s$ فكانت على الترتيب كما يلي :

$v(m.s^{-1})$: 0,0 ; 12,35 ; 19,6 ; 19,6

1- حدد طبيعة حركة مركز عطالة الجسم (S) في النظامين الانتقالي والدائم. علل.

2- بالاعتماد على النتائج السابقة عين السرعة الحدية v_{lim} .

3- كيف يكون الجسم (S) متميزا وهذا للحصول على حركة مستقيمة شاقولية انسحابية في نظامين انتقالي ودائم؟

4- باعتبار دافعة أرخميدس مهملة ، استنتج عندئذ المعادلة التفاضلية للحركة بدلالة السرعة v في حالة السرعات الصغيرة .

الجديد و الحصري فقط على موقع الأستاذ Lotphilosophie
sites.google.com/site/lotphilosophie

الموضـــوع الثاني

التمرين الأول: (04 نقاط).

عثر العمال أثناء الحفريات الجارية في بناء مجمعات سكنية على جمجمتين بشريتين إحداهما (a) سليمة والثانية (b)مهشمة جزئياً. اقترح العمال فرضيتان:

- يَرَى الفريق الأول أن الجمجمتين لشخصين عاشا في نفس الحقبة الزمنية.
- يَرَى الفريق الثاني أن العوامل الطبيعية كانجراف التربة والانكسارات الصخرية جمعت الجمجمتين، رغم أنهما لشخصين عاشا في حقبتين مختلفتين(تقدر الحقبة بـــ 70سنة) .

تَدَخَّلَ فريق ثالث (خبراء علم الآثار) للفصل في القضية معتمداً النشاط الإشعاعي للكربون ^{14}C .

علماً بأن المادة الحية يتجدد فيها الكربون ^{14}C المشع لجسيمات (β^-)باستمرار، وبعد الوفاة تتوقف هذه العملية.

أخذ الفريق الثالث عينة من كل جمجمة(العينتان متساويتان في الكتلة) وقاس نشاطهما الإشعاعي حيث كانت النتيجتين على الترتيب : $A_{(a)} = 5000Bq$ و $A_{(b)} = 4500Bq$. علماً أن نشاط عينة حديثة مماثلة لهما هو $A_0 = 6000Bq$ ، ونصف عمر ^{14}C هو $t_{1/2} = 5570ans$.

1/ اكتب معادلة تفكك الكربون $^{14}_{6}C$ ، وتعرف على النواة الإبن (غير المثارة) من بين الأنوية التالية: $^{16}_{8}O$ أو $^{14}_{7}N$ أو $^{19}_{9}F$.

2/ اكتب علاقة النشاط $A(t)$للعينة بدلالة: A_0 , t , $t_{1/2}$.

3/ كيف حسم الفريق الثالث في القضية ؟

4/ احسب بالإلكترون فولط وبالجول طاقة ربط نواة الكربون 14 .

يعطى:

$m_p = 1,00728u$ ، $1MeV = 1,6\times10^{-13}J$ ، $1u = 931,5MeV \times C^{-2}$

$m_n = 1,00866u$ ، $1eV = 1,6\times10^{-19}J$ ، $m_{^{14}_{6}C} = 14,00324\,u$

التمرين الثاني: (04 نقاط)

يتكون مشروب غازي من غاز ثنائي أكسيد الكربون CO_2 منحل في الماء والسكر وحمض البنزويك ذو الصيغة C_6H_5COOH. يريد أحد التلاميذ إجراء عملية معايرة لمعرفة التركيز المولي C_a للحمض في هذا المشروب، ولأجل ذلك يأخذ منه حجما قدره $V_a = 50mL$ بعد إزالة غاز CO_2 عن طريق رجه جيدا ويضعه في بيشر ثم يعـــايره بواســـطة محلـــول هيدروكـــسيد الـــصوديوم $(Na^+(aq) + HO^-(aq))$ ذي التركيـــز المـــولي $C_b = 1,0\times10^{-1}mol.L^{-1}$.

1- من أجل كل حجم V_b لهيدروكسيد الصوديوم المضاف يسجل التلميذ في كل مرة قيمة pH المحلول عند الدرجة $25°C$ باستعمال مقياس الـــ pH متر فتمكن من الحصول على النتائج التالية :

الجديد و الحصري فقط على موقع الأستاذ Lotphilosophie
sites.google.com/site/lotphilosophie

من أجل حجم مضاف قيمته $V_b = 5mL$ كانت قيمة $pH = pK_a = 4,2$.

من أجل حجم مضاف قيمته $V_b = 10mL$ كانت قيمة $pH = 8$.

باعتبار حمض البنزويك الحمض الوحيد في المشروب الغازي.

أ- اكتب المعادلة الكيميائية المعبرة عن التفاعل المنمذج للتحول الكيميائي الحاصل خلال المعايرة.

ب- باستغلال النتائج السابقة حدد إحداثيي نقطة التكافؤ E.

جـ- استنتج التركيز المولي C_a لحمض البنزويك.

2- من أجل حجم $V_b = 10,0\ mL$ لهيدروكسيد الصوديوم المضاف، أوجد كمية مادة الأنواع الكيميائية المتواجدة في المزيج.

3- ما هو الكاشف المناسب لمعرفة نقطة التكافؤ من بين الكواشف التالية مع التعليل ؟

- الكاشف أحمر الميثيل pH مجال تغيره اللوني 4,2 – 6,2
- الكاشف أزرق البروموتيمول pH مجال تغيره اللوني 6,0 – 7,6
- الكاشف فينول فتاليين pH مجال تغيره اللوني 8,0 – 10,0

التمرين الثالث: (04 نقاط)

نحقق دارة كهربائية على التسلسل تتكون من :

- مولد ذو توتر كهربائي ثابت $E = 5V$.
- ناقل أومي مقاومته $R = 100\ \Omega$.
- مكثفة سعتها C.
- قاطعة k .

نوصل طرفي المكثفة B,A إلى واجهة دخول لجهاز إعلام آلي وعولجت المعطيات ببرمجية "Microsoft Excel" وتحصلنا على قيم التوتر الكهربائي بين طرفي المكثفة u_c في اللحظات التالية:

0ms ; 0,50ms ; 1ms ; 2ms ; 5ms

هي على الترتيب: $0V$; 2 V ; 3,15 V ; 4,35 V ; 5 V

1/ عين قيمة ثابت الزمن τ للدارة وما مدلوله الفيزيائي؟

استنتج قيمة سعة المكثفة C.

2/ احسب شحنة المكثفة عند بلوغ الدارة النظام الدائم .

3/ لو استبدلنا المكثفة السابقة بمكثفة أخرى سعتها $C' = 2C$ ، كيف تصبح قيمة ثابت الزمن الجديد ؟

الجديد و الحصري فقط على موقع الأستاذ Lotphilosophie
sites.google.com/site/lotphilosophie

التمرين الرابع : (04 نقاط)

نأخذ : $g=10\,m\times s^{-2}$ ، مقاومة الهواء ودافعة أرخميدس مهملتان.

لتنفيذ مخالفة خلال مباراة في كرة القدم، وضع اللاعب الكرة في النقطة O مكان وقوع الخطأ (نعتبر الكرة نقطية) على بعد $d=25\,m$ من خط المرمى، حيث ارتفاع العارضة الأفقية $h=AB=2,44\,m$.

يقذف اللاعب الكرة بسرعة ابتدائية $\vec{v}_0$ يصنع حاملها مع الأفق زاوية $\alpha=30°$.

1/ ادرس طبيعة حركة الكرة في المعلم $(\vec{ox},\vec{oy})$ بأخذ مبدأ الأزمنة لحظة القذف.

استنتج معادلة المسار $y=f(x)$.

2/ كم يجب أن تكون قيمة $\vec{v}_0$ حتى يُسَجَّلَ الهدف مماسياً للعارضة الأفقية (النقطة A) ؟

ما هي لحظة وصول الكرة إلى العارضة الأفقية (النقطة A)؟

وما هي قيمة سرعتها (النقطة A) ؟

3/ كم يجب أن تكون قيمة $\vec{v}_0'$ حتى يُسَجَّلَ الهدف مماسياً لخط المرمى (النقطة B) ؟

التمرين التجريبي: (04 نقاط)

نأخذ عينة من منظف طبي للجروح عبارة عن سائل يحتوي أساسا على ثنائي اليود $I_2(aq)$ تركيزه المولي (C_0). نضيف إليها قطعة من الزنك $Zn(s)$.

1- اكتب معادلة التفاعل المنمذج للتحول الكيميائي الحادث، علما أن الثنائيتين الداخلتين في التفاعل هما: $(I_2(aq)/I^-(aq))$ ، $(Zn^{2+}(aq)/Zn(s))$.

2- في تجربة أولى عند درجة الحرارة $20°C$، نضيف إلى حجم $V=50\,mL$ من المنظف قطعة من Zn، ونتابع عن طريق المعايرة تغيرات $[I_2(aq)]$ بدلالة الزمن t فكانت قيم التراكيز المولية في اللحظات :

$t(min)$: 0 ; 0,2 ; 0,4 ; 0,6 ; 0,8

هي : $[I_2](mmol.L^{-1})$: 20 ; 13 ; 09 ; 06 ; 04

أ- عرف السرعة الحجمية لاختفاء I_2 ثم استنتج قيمتها المتوسطة في المجال $[0min\ ,\ 0,4min]$ ثم في المجال $[0,4min\ ,\ 0,8min]$.

ب- كيف تتطور السرعة الحجمية لاختفاء I_2 مع الزمن ؟ فسر ذلك.

3- في تجربة ثانية نأخذ نفس الحجم V من نفس العينة عند الدرجة $20°C$، نضعها في حوجلة عيارية سعتها $100\,mL$ ثم نكمل الحجم بواسطة الماء المقطر إلى خط العيار ونسكب محتواها في بيشر ونضيف إلى المحلول قطعة من الزنك .

كيف تتطور السرعة في هذه الحالة مقارنة بالتجربة الأولى ؟

4- في تجربة ثالثة تُرْفع درجة الحرارة إلى $80°C$، وتحت نفس شروط التجربة الأولى

كيف تتطور السرعة في هذه الحالة مقارنة بالتجربة الأولى ؟

5- ما هي العوامل الحركية التي تبرزها هذه التجارب ؟

الجديد و الحصري فقط على موقع الأستاذ Lotphilosophie
sites.google.com/site/lotphilosophie

الإجابة النموذجية و سلم التنقيط

امتحان شهادة البكالوريا دورة : 2010

اختبار مادة : العلوم الفيزيائية الشعب(ة): علوم تجريبية

المحاور	عناصر الإجابة	مجزأة	مجموع

الموضوع الأول

التمرين الأول : (04 نقاط)

1- جدول التقدم:

المعادلة		$Zn(s)$	$+\ 2H^+(aq)$	$=\ Zn^{2+}(aq)$	$+\ H_2(g)$
ح/ الجملة	التقدم	كمية المادة (mol)			
ح/ إبتد	0	$1,54\times10^{-2}$	2×10^{-2}	0	0
ح/ إنتقا	x	$1,54\times10^{-2}-x$	$2\times10^{-2}-2x$	x	x
ح/ نها	x_f	$1,54\times10^{-2}-x_f$	$2\times10^{-2}-2x_f$	x_f	x_f

مجزأة: 0.75 — مجموع: 01

- العلاقة: $n_{H_2}=x=\frac{V_{H_2}}{V_M}$ — مجزأة: 0.25

2- إكمال الجدول:

$t(s)$	0	50	100	150	200
$x\times10^{-3}(mol)$	0	1,44	2,56	3,44	16,4
$t(s)$	250	300	400	500	750
$x\times10^{-3}(mol)$	4,80	5,28	6,16	6,80	8,00

مجزأة: 0.5 — مجموع: 05

3- رسم البيان: $x=f(t)$ (أنظر الصفحة 8/2) — مجزأة: 0.5 — مجموع: 0.5

4- السرعة الحجمية: $v=\frac{1}{V}.\frac{dx}{dt}$. — مجزأة: 0.25

- في اللحظة $t_1=100s$: $v_1\approx4,7\times10^{-4}mol.s^{-1}.L^{-1}$ — مجزأة: 0.25 — مجموع: 01
- في اللحظة $t_2=400s$: $v_2\approx2,0\times10^{-4}mol.s^{-1}.L^{-1}$ — مجزأة: 0.25

يلاحظ أن قيمة السرعة الحجمية للتفاعل تتناقص بزيادة الزمن بسبب نقص تراكيز المتفاعلات.

5/ أ- المتفاعل المحد: من جدول التقدم $x_{max}=10^{-2}mol$ ومنه المتفاعل المحد هو حمض كلور الهيدروجين. — مجزأة: 2×0.25

- زمن نصف التفاعل $t_{1/2}$: هو المدة الزمنية التي يبلغ فيها تقدم التفاعل نصف قيمة تقدمه الأعظمي $x_{(t_{1/2})}=\frac{x_{max}}{2}$. — مجزأة: 0.25 — مجموع: 01

من البيان: $x_{(t_{1/2})}=5\times10^{-3}mol \Leftrightarrow t_{1/2}\approx270s$ — مجزأة: 0.25

20
الجديد و الحصري فقط على موقع الأستاذ Lotphilosophie
sites.google.com/site/lotphilosophie

المحاور	عناصر الإجابة	مجزأة	مجموع
	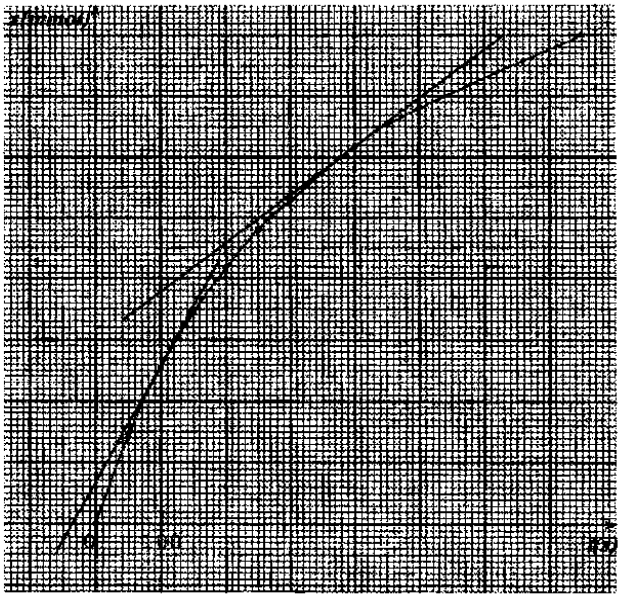		
	التمرين الثاني: (04 نقاط)		
	1- تركيب نواة الكربون 14: عدد البروتونات: $Z=6$	0.25	0.5
	عدد النيترونات: $N=A-Z=8$	0.25	
	2- ا/ تعيين النواة بتطبيق قانوني الإنحفاظ: $A=14 \Leftarrow A+1=14+1$	0.25	
	$Z=6 \Leftarrow 7+0=Z+1$	0.25	
	ومنه: ${}^{14}_{6}C \equiv {}^{A}_{Z}Y_1$	0.25	01
	ب/ المعادلة: ${}^{14}_{6}C \rightarrow {}^{14}_{7}N + {}^{0}_{-1}e^{-}$ ومنه ${}^{14}_{7}N \equiv {}^{A'}_{Z'}Y_2$ (الآزوت14).	0.25	
	3-ا/ N(t) : عدد الأنوية غير المتفككة في العينة في اللحظة t.	0.25	
	N_0 : عدد الانوية غير متفككة في العينة في اللحظة $t=0$.	0.25	
	λ : ثابت التفكك الاشعاعي.	0.25	
	ب/ إثبات العلاقة: عندما $t=t_{1/2}$ يكون: $N(t)=N_0/2$	0.25	1.75
	$N_0/2=N_0.e^{-\lambda t_{1/2}} \Leftarrow 1/2=e^{-\lambda t_{1/2}} \Leftarrow -\ln 2=-\lambda t_{1/2}$ ومنه: $\lambda=\dfrac{ln\,2}{t_{1/2}}$	0.25	
	ج/ $[\lambda]=\dfrac{1}{[T]}=[T]^{-1}$ أي أن وحدة قياس λ هي مقلوب وحدة الزمن (s^{-1}).	0.25	
	د/ قيمة λ: $\lambda=\dfrac{ln\,2}{t_{1/2}}$ ومنه: $\lambda=1,244\times10^{-4}ans^{-1}$	0.25	
	4- عبارة النشاط: $A(t)=-\dfrac{dN}{dt} \Rightarrow A(t)=N_0\lambda e^{-\lambda t}=A_0e^{-\lambda t}$	0.25	
	حساب عمر العينة: $\dfrac{A}{A_0}=e^{-\lambda t} \Leftrightarrow \ln\dfrac{A}{A_0}=-\lambda t$	0.25	
	$t=-\dfrac{\ln A/A_0}{\lambda}=1489,28ans$		0.75
	تم قطع الشجرة التي انحدرت منها القطعة عام: $2000-1489,28=510,72\approx511$	0.25	

21
الجديد و الحصري فقط على موقع الأستاذ Lotphilosophie
sites.google.com/site/lotphilosophie

المحاور	عناصر الإجابة	مجزأة	مجموع
	التمرين الثالث: (04 نقاط)		
	1- $u_R = R.i$ ، $u_b = r.i + L\frac{di}{dt}$	2×0.5	01
	2- المعادلة التفاضلية: $E = (R+r)i + L\frac{di}{dt} \Leftrightarrow \frac{di}{dt} + \frac{(R+r)}{L}i = \frac{E}{L}$	2×0.25	0.5
	3- باشتقاق عبارة التيار والتعويض في المعادلة التفاضلية تتحقق المساواة.	0.5	0.5
	4- أ/ $i_{max} = \frac{E}{R+r} \Leftrightarrow r = 2\Omega$	2×0.25	1.5
	ب/ $\tau \approx 10ms$ (باستعمال ميل المماس في اللحظة $t=0$) أو طريقة النسبة المئوية (63%) من I_0 أي i_{max}	0.5	
	$\tau = \frac{L}{R+r} \Leftrightarrow L = 1,2\times10^{-1}H$	2×0.25	
	5- الطاقة المخزنة في الوشيعة في حالة النظام الدائم: $E_b = \frac{1}{2}L.i_{max}^2$; $E_b = 1,5\times10^{-2}J$	2×0.25	0.5
	التمرين الرابع: (04 نقاط)		
	1- عملية التمديد: $c_1V_1 = c_2V_2$ ، $n_1 = n_2$	0.25	01
	$V_2 = \frac{c_1V_1}{c_2} = \frac{c_1V_1}{\frac{c_1}{10}} = 10V_1$	0.25	
	الشرح : نأخذ 20mL من المحلول (S_0) ونضعها في حوجلة قياسية (عيارية) سعتها 200mL نضيف الماء المقطر حتى الخط العياري 200mL (إضافة 180mL من الماء المقطر).	0.5	
	2- معادلة التفاعل المنمذج: $OH^-(aq) + HCOOH(aq) = HCOO^-(aq) + H_2O(l)$	0.5	0.5
	3- نقطة التكافؤ من البيان : $E(20mL\ ;\ 8,2)$	0.5	1.25
	تركيز الحمض الممدد : $c_aV_a = c_bV_b \Rightarrow c_a = \frac{c_bV_b}{v_a}$	0.25	
	$c_a = \frac{0,02\times20}{20} = 0,02mol/L$	2×0.25	
	4- حساب K_a عند نقطة نصف التكافؤ: $pH = pK_a = 3,8$ ، $K_a = 10^{-3,8} = 1,58\times10^{-4}$	3×0.25	0.75
	5- تركيز المحلول الأصلي (S_0): $c_0 = 10c_a \Rightarrow c_0 = 10\times0,02 = 0,2mol/L$	0.5	0.5

22
الجديد و الحصري فقط على موقع الأستاذ Lotphilosophie
sites.google.com/site/lotphilosophie

المحاور	عناصر الإجابة	مجزأة	مجموع
	التمرين التجريبي: (04 نقاط)		
	1- إن البيان $v = f(t)$ يعبر عن نظامين أحدهما انتقالي والآخر دائم.	0.25	
	- النظام الانتقالي : $0 \le t \le 7s$ ح.م. متسارعة	0.25	0.75
	- النظام الدائم : $t > 7s$ ح.م. منتظمة $v = Cte$	0.25	
	2- أ/ السرعة الحدية $v_{lim} = 19,6m/s$	0.25	
	ب/ تسارع الحركة عند $t = 0$ يتمثل في حساب ميل المماس عند $t = 0$	0.25	0.75
	$a_0 = \frac{\Delta v}{\Delta t} = \frac{19,6 - 0,6}{2 - 0} = 9,5m.s^{-2}$	0.25	
	3- الشكل ، الحجم ، الكتلة ...	0.5	0.5
	4- $\vec{f} + \vec{P} = m.\vec{a}$	0.25	
	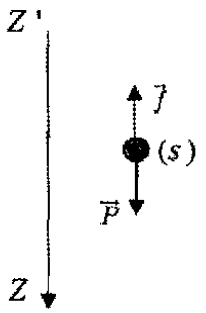	0.25	1.25
	$-f + P = m.a$	الرسم 0.5	
	$-Kv + m.g = m\frac{dv}{dt}$	0.25	
	$g = \frac{K}{m}v + \frac{dv}{dt}$		
	5- بيان السرعة بدلالة الزمن يكون خطيا.	0.25	
	$g = \frac{dv}{dt} = a$ ومنه $v = gt$ دالة خطية.	0.25	0.75
	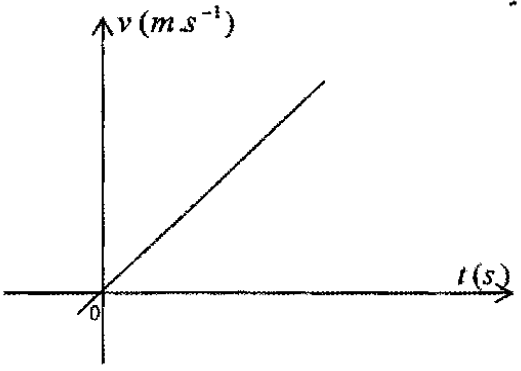	0.25	

23
الجديد و الحصري فقط على موقع الأستاذ Lotphilosophie
sites.google.com/site/lotphilosophie

المحاور	عناصر الإجابة	مجزأة	مجموع
	الموضوع الثاني		
	التمرين الأول: (04 نقاط)		
	1) معادلة التفكك ^{14}C:		
	$^{14}_{6}C \rightarrow ^{A}_{Z}Y + ^{0}_{-1}e$	0.25	
	$14 = A + 0, \quad A = 14$	0.25	
	$6 = Z - 1, \quad Z = 7$, $^{A}_{Z}Y = ^{14}_{7}N$	0.25	01
	$^{14}_{6}C \rightarrow ^{14}_{7}N + ^{0}_{-1}e$	0.25	
	2) علاقة $A(t)$ بدلالة $A_0, t, t_{1/2}$	0.25	
	$A = A_0 e^{-\lambda t}$	0.25	0.75
	$A = A_0 e^{-\frac{\ln 2}{t_{1/2}} t}$	0.25	
	3)		
	$\ln \frac{A}{A_0} = -\frac{\ln 2}{t_{1/2}} t$		
	$t = \frac{t_{1/2}}{\ln 2} . \ln \frac{A_0}{A}$	0.25	
	الفريق الأول: $t_A = \frac{5570}{0.693} \ln \frac{5000}{6000}$	2×0.25	
	$t_A \simeq 1458,57 ans$		1.5
	الفريق الثاني: $t_B = \frac{5570}{0.639} \ln \frac{4500}{6000}$	2×0.25	
	$t_B \simeq 2301,45 \quad ans$		
	$\lvert t_A - t_B \rvert = 842,88 \, ans$	0.25	
	الجمجمتان لا تنتميان لنفس الحقبة الزمنية.		
	4) $E_l(^{14}_{6}C) = \Delta m C^2$	0.25	
	$E_l(^{14}_{6}C) = ([6 \times 1,00728 + (14-6) \times 1,00866] - 14,00324) C^2 \times \frac{931,5}{C^2}$	0.25	0.75
	$E_l = 102,2 MeV = 102,2 \times 10^6 eV$	0.25	
	التمرين الثاني : (04 نقاط)		
	1-أ/ $C_6H_5COOH(aq) + HO^-(aq) = C_6H_5COO^-(aq) + H_2O(l)$	0.5	
	ب/ نقطة التكافؤ : $E(10mL ; 8)$		
	تحدد E بيانيا باستعمال طريقة المماسات المتوازية.	0.5	1.5

24
الجديد و الحصري فقط على موقع الأستاذ Lotphilosophie
sites.google.com/site/lotphilosophie

المحاور	عناصر الإجابة	مجزأة	مجموع
	ج/ عند التكافؤ : $C_aV_a = C_bV_{bE}$ ومنه: $C_a = \frac{C_b.V_{bE}}{V_a}$	0.25	
	$C_a = 2,0\times10^{-2} mol.L^{-1}$	0.25	
	2-أ-جدول التقدم:	0.5	

المعادلة	$C_6H_5COOH(aq)$ +	$HO^-(aq)$ =	$C_6H_5COO^-(aq)$ +	$H_2O(l)$
بزيادة	$C_aV_a = 10^{-3} mol$	$C_bV_b = 10^{-3} mol$	0	
بزيادة	$10^{-3} - x_E$	$10^{-3} - x_E$	x_E	
ح/ابتد				
ح/نها				

ب- حساب كمية مادة كل من H_3O^+ و C_6H_5COOH عند التكافؤ:

$n_{(H_3O^+)} = 10^{-pH} \times (V_a + V_b) = 10^{-8} \times (50+10)10^{-3}$ — 0.25

$n_{(H_3O^+)} = 6\times10^{-10} mol$ — 0.25

$n_{(HO^-)} = 10^{(8-14)} \times (50+10)10^{-3}$ — 0.25

$n_{(HO^-)} = 6\times10^{-8} mol \Leftrightarrow 10^{-3} - x_E = 6\times10^{-8} \Rightarrow x_E = 10^{-3} mol$ — 0.25

$n_{(C_6H_5COOH_{(aq)})} = C_aV_a - x_E = 10^{-3} - x_E = 0$ — 2×0.25

* تقبل الإجابة عند ذكر تفاعل المعايرة تام وبالتالي $n_{(C_6H_5COOH)} = 0$

4- الكاشف المناسب هو فينول فتاليين لأن مجال تغيره اللوني يحوي قيمة pH نقطة التكافؤ. — 0.5 — 0.5 — 02

التمرين الثالث (04 نقاط)

1 مخطط الدارة:

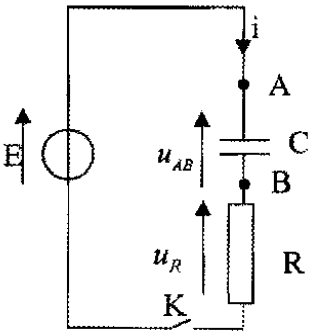

— 0.75 — 0.75

2) ثابت الزمن من البيان $\tau = 1ms$ — 0.5

وهو الزمن اللازم لتشحن المكثفة بنسبة 63% من شحنتها العظمى. — 0.5 — 1.5

سعة المكثفة $\tau = RC \Rightarrow C = \frac{\tau}{R} = \frac{10^{-3}}{100}$ — 0.5

$C = 10^{-5} F = 10\mu F$

3) شحن المكثفة عند النظام الدائم: $Q_{max} = q_0 = E.C$ — 2×0.25 — 0.5

$q_0 = 5.10^{-5} Coulomb$

4) شكل المنحنى

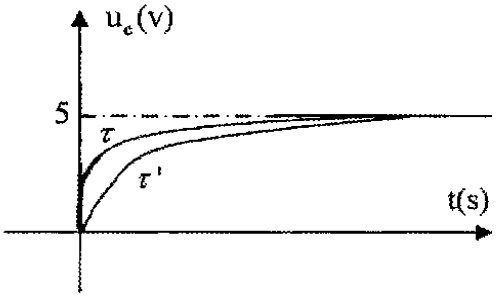

— 0.5 — 1.25

التعليل: $\tau' = 2\tau \Leftarrow \begin{matrix} \tau = RC \\ \tau' = 2RC \end{matrix}$ — 0.75

25
الجديد و الحصري فقط على موقع الأستاذ Lotphilosophie
sites.google.com/site/lotphilosophie

المحاور	عناصر الإجابة	مجزأة	مجموع
	التمرين الرابع (04 نقاط)		
	1- القانون الثاني لنيوتن في مرجع غاليلي : $\sum \vec{F}_{ext} = m.\vec{a}$	0.25	
	$\vec{P} = m.\vec{a}$	0.25	2.5
	على $(\vec{ox})$: $a_x = 0 \Leftarrow$ ح.م.منتظمة معادلتها: $x = v_0 \cos\alpha.t$	3×0.25	
	على $(\vec{oy})$: $a_y = -g \Leftarrow$ ح.م.م. بإنتظام معادلتها: $y = -\frac{1}{2}gt^2 + v_0 \sin\alpha t$	3×0.25	
	معادلة المسار : $y = \frac{-g}{2v_0^2\cos^2\alpha}x^2 + \tan\alpha.x$ وهو عبارة عن قطع مكافئ.	0.5	
	2- يسجل الهدف لما: $x = d$ و $y = h$	0.25	
	$h = \frac{-g}{2v_0^2\cos^2\alpha}d^2 + \tan\alpha.d$	0.25	01
	بالتعويض نجد: $v_0 \simeq 18,6ms^{-1}$		
	$x = v_0 \cos\alpha t = d$		
	$t = 1,55s$	2×0.25	
	$v_A = \sqrt{(v_0\cos\alpha)^2 + (-gt + v_0\sin\alpha)^2}$		
	$v_A = 17,26m.s^{-1}$		
	3- يسجل الهدف لما: $x = d$ و $y = 0$		
	$0 = \frac{-g}{2v_0^2\cos^2\alpha}d^2 + \tan\alpha.d$	0.25	0.5
	$v_0{}' = 17ms^{-1}$	0.25	
	التمرين التجريبي: (04 نقاط).		
	1-		
	$Zn(s) = Zn^{2+}(aq) + 2e^-$	0.25	
	$I_2(aq) + 2e^- = 2I^-(aq)$	0.25	0.75
	$Zn(s) + I_2(aq) = Zn^{2+}(aq) + 2I^-(aq)$	0.25	
	2- أ) البروتوكول التجريبي: المواد والأدوات وطريقة العمل والرسم.	0.5	
	ب) تعريف السرعة الحجمية: هي سرعة التفاعل من أجل وحدة الحجم للوسط التفاعلي.	0.25	
	$v = \frac{1}{V}\frac{dx}{dt}$		
	$v = -\frac{d[I_2]}{dt}$	0.25	1.75
	تحسب السرعة بيانيا بميل المماس للمنحنى في كل لحظة t .	0.25	
	ج) السرعة الحجمية تتناقص مع مرور الزمن بسبب تناقص التركيز وبالتالي نقص الاصطدامات الفعالة .	0.5	

26
الجديد و الحصري فقط على موقع الأستاذ Lotphilosophie
sites.google.com/site/lotphilosophie

المحاور	عناصر الإجابة	مجزأة	مجموع
	3- شكل المنحنى : 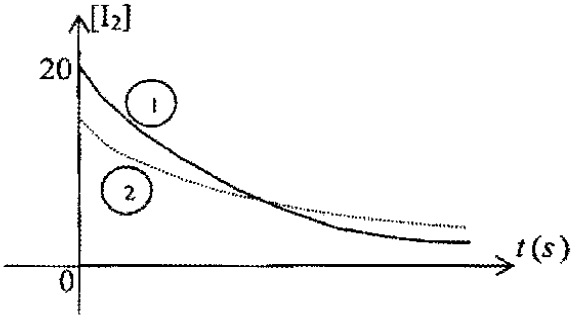 السرعة عند $t = 0$ أقل من السرعة في التجربة (1) عند نفس اللحظة بسبب التناقص في التركيز الابتدائي.	0.5	0.5
	4- 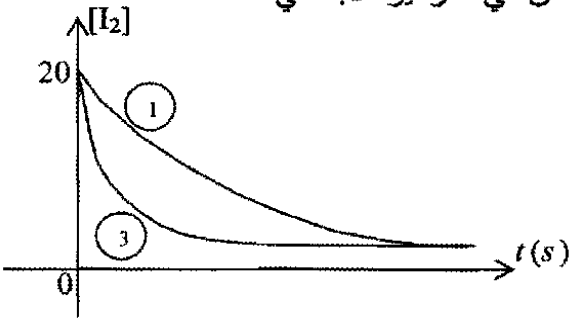 	0.5	0.5
	5- العوامل الحركية هي : - التركيز المولي للمتفاعلات. - درجة الحرارة	0.5	0.5

27

الجديد و الحصري فقط على موقع الأستاذ Lotphilosophie
sites.google.com/site/lotphilosophie

الإجابة النموذجية و سلم التنقيط

امتحان شهادة البكالوريا دورة : 2010

اختبار مادة : العلوم الفيزيائية (الموضوع المكيف) الشعب(ة): علوم تجريبية

المحاور	عناصر الإجابة	مجزأة	مجموع
	الموضوع الأول		
	التمرين الأول : (04 نقاط)		
	1- العلاقة: $n_{H_2} = x = \frac{V_{H_2}}{V_M} \Leftrightarrow n = \frac{V_{gaz}}{V_M}$ أو $n = \frac{m}{M}$	2×0.5	1
	2- حساب قيم التقدم x:	0.5	0.5

$t(s)$	0	50	100	150	200
$x \times 10^{-3}(mol)$	0	1,44	2,56	3,44	16,4
$t(s)$	250	300	400	500	750
$x \times 10^{-3}(mol)$	4,80	5,28	6,16	6,80	8,00

3- السرعة المتوسطة: $v = \frac{\Delta x}{\Delta t}$.	0.25	1.5
$[300s, 500s]$: $v_1 = 7,6 \times 10^{-6} mol\, s^{-1}$	0.5	
$[50s, 150s]$: $v_2 = 20 \times 10^{-6} mol\, s^{-1}$	0.5	
قيمة السرعة المتوسطة تتناقص بمرور الزمن.	0.25	
4/ أ- $x_{max} = 10^{-2} mol$ ومنه المتفاعل المحد هو حمض كلور الهيدروجين.	0.5	1
ب- زمن نصف التفاعل $t_{1/2}$: هو المدة الزمنية التي يبلغ فيها تقدم التفاعل	0.25	
نصف قيمة تقدمه الأعظمي $x_{(t_{1/2})} = \frac{x_{max}}{2}$. $x_{(t_{1/2})} = 5 \times 10^{-3} mol$	0.25	
التمرين الثاني: (04 نقاط)		
1- تركيب نواة الكربون 14: عدد البروتونات: $Z = 6$	0.25	0.5
عدد النيترونات: $N = A - Z = 8$	0.25	
2- أ/ تعيين النواة بتطبيق قانوني الإنحفاظ: $A = 14 \Leftarrow A + 1 = 14 + 1$	0.25	1
$Z = 6 \Leftarrow 7 + 0 = Z + 1$	0.25	
ومنه: ${}^{14}_{6}C \equiv {}^{A}_{Z}Y_1$	0.25	
ب/ المعادلة: ${}^{14}_{6}C \rightarrow {}^{14}_{7}N + {}^{0}_{-1}e^-$ ومنه ${}^{14}_{7}N \equiv {}^{A}_{Z}Y_2$ (الآزوت14).	0.25	
3-أ/ N(t) : عدد الأنوية غير المتفككة في العينة في اللحظة t.	0.25	1.50
N_0 : عدد الانوية غير متفككة في العينة في اللحظة $t = 0$.	0.25	
λ : ثابت التفكك الاشعاعي.		
ب/ إثبات العلاقة: عندما $t = t_{1/2}$ يكون: $N(t) = N_0/2$	0.25	
$N_0/2 = N_0.e^{-\lambda t_{1/2}} \Leftarrow 1/2 = e^{-\lambda t_{1/2}} \Leftarrow -\ln 2 = -\lambda t_{1/2}$ ومنه: $\lambda = \frac{\ln 2}{t_{1/2}}$	0.25	
جـ/ $[\lambda] = \frac{1}{[T]} = [T]^{-1}$ أي أن وحدة قياس λ هي مقلوب وحدة الزمن (s^{-1}).	0.25	
د/ قيمة λ: $\lambda = \frac{\ln 2}{t_{1/2}}$ ومنه: $\lambda = 1,244 \times 10^{-4} ans^{-1}$	0.25	

28
الجديد و الحصري فقط على موقع الأستاذ Lotphilosophie
sites.google.com/site/lotphilosophie

المحاور	عناصر الإجابة	مجزأة	مجموع
	4- عبارة النشاط: $A(t)=-\frac{dN}{dt}\Rightarrow A(t)=N_0\lambda e^{-\lambda t}=A_0e^{-\lambda t}$	0.25	
	حساب عمر العينة: $\frac{A}{A_0}=e^{-\lambda t}\Leftrightarrow \ln\frac{A}{A_0}=-\lambda t$	0.25	1
	$t=-\frac{\ln A/A_0}{\lambda}=1489,28ans$	0.25	
	تم قطع الشجرة التي انحدرت منها القطعة عام: $2000-1489,28=510,72\simeq 511$	0.25	
	التمرين الثالث: (04 نقاط)		
	1- $u_R=R.i$ ، $u_b=r.i+L\frac{di}{dt}$	2×0.5	1
	2- المعادلة التفاضلية: $E=(R+r)i+L\frac{di}{dt}\Leftrightarrow \frac{di}{dt}+\frac{(R+r)}{L}i=\frac{E}{L}$	2×0.25	0.5
	3- باشتقاق عبارة التيار والتعويض في المعادلة التفاضلية تتحقق المساواة.	0.5	0.5
	4- أ/ $r=2\Omega \Leftrightarrow i_{max}=\frac{E}{R+r}\Leftrightarrow i_{max}=0,25\times 2=0,5A$	2×0.25	
	$\tau=\frac{t_{1/2}}{\ln 2}\Leftrightarrow \tau\approx 10ms$	0.5	1.5
	$\tau=\frac{L}{R+r}\Leftrightarrow L=1,2\times 10^{-1}H$	2×0.25	
	ب- الطاقة المخزنة في الوشيعة في حالة النظام الدائم: $E_b=\frac{1}{2}L.i_{max}^2$; $E_b=1,5\times 10^{-2}J$	2×0.25	0.5
	التمرين الرابع: (04 نقاط)		
	1- عملية التمديد: $n_1=n_2 \qquad c_1V_1=c_2V_2$	0.25	
	$V_2=\frac{c_1V_1}{c_2}=\frac{c_1V_1}{\frac{c_1}{10}}=10V_1$	0.25	01
	الشرح : نأخذ 20mL من المحلول (S_0) ونضعها في حوجلة قياسية (عيارية) سعتها 200mL نضيف الماء المقطر حتى الخط العياري 200mL (إضافة 180mL من الماء المقطر).	0.5	
	2- معادلة التفاعل المنمذج: $OH^-(aq)+HCOOH(aq)=HCOO^-(aq)+H_2O(l)$	0.5	0.5
	3- نقطة التكافؤ: $E(20mL\ ;\ 8,2)$	0.5	
	تركيز الحمض الممدد : $c_aV_a=c_bV_b\Rightarrow c_a=\frac{c_bV_b}{v_a}$	0.25	1.25
	$c_a=\frac{0,02\times 20}{20}=0,02mol/L$	2×0.25	

29
الجديد و الحصري فقط على موقع الأستاذ Lotphilosophie
sites.google.com/site/lotphilosophie

المحاور	عناصر الإجابة	مجزأة	مجموع
	4- حساب K_a عند نقطة نصف التكافؤ: $pH = pK_a = 3,8$ $K_a = 10^{-3,8} = 1,58 \times 10^{-4}$	3×0.25	0.75
	5- تركيز المحلول الأصلي (S_0): $c_0 = 10c_a \Rightarrow c_0 = 10 \times 0,02 = 0,2 mol/L$	0.5	0.5
	التمرين التجريبي: (04 نقاط)		
	1- المعطيات تبين وجود نظامين أحدهما انتقالي والآخر دائم.		
	- النظام الانتقالي : $0 \le t \le 10s$ ح.م. متسارعة - النظام الدائم : $t > 10s$ ح.م. منتظمة $v = Cte$	2×0.5	01
	2- السرعة الحدية $v_{Lim} = 19,6 m/s$	01	01
	3- الشكل ، الحجم ، الكتلة، ...	01	01
	4- $\sum \vec{F}_{ext} = m\vec{a} \Leftrightarrow \vec{f} + \vec{P} = m.\vec{a}$	0.25	
	$-f + P = m.a$	0.25	01
	$-Kv + m.g = m\dfrac{dv}{dt}$	0.25	
	$g = \dfrac{K}{m}v + \dfrac{dv}{dt}$	0.25	

30

الجديد و الحصري فقط على موقع الأستاذ Lotphilosophie
sites.google.com/site/lotphilosophie

المحاور	عناصر الإجابة	مجزأة	مجموع
	الموضوع الثاني		
	التمرين الأول: (04 نقاط)		
	1) معادلة التفكك ^{14}C:		
	$^{14}_{6}C \rightarrow {}^{A}_{Z}Y + {}^{0}_{-1}e$	0.25	01
	$14 = A + 0, \quad A = 14$, ${}^{A}_{Z}Y = {}^{14}_{7}N$	0.25	
	$6 = Z - 1, \quad Z = 7$	0.25	
	$^{14}_{6}C \rightarrow {}^{14}_{7}N + {}^{0}_{-1}e$	0.25	
	2) علاقة $A(t)$ بدلالة $t_{1/2}, t, A_0$		
	$A = A_0 e^{-\lambda t}$	0.25	0.75
	$A = A_0 e^{-\frac{\ln 2}{t_{1/2}} t}$	2×0.25	
	3)		
	$\ln \frac{A}{A_0} = -\frac{\ln 2}{t_{1/2}} t$	0.25	
	$t = \frac{t_{1/2}}{\ln 2} . \ln \frac{A_0}{A}$	2×0.25	1.5
	الفريق الأول: $t_A = \frac{5570}{0.693} \ln \frac{5000}{6000}$	2×0.25	
	$t_A = 1458,57 ans$		
	الفريق الثاني: $t_B = \frac{5570}{0.639} \ln \frac{4500}{6000}$		
	$t_B = 2301,45 \quad ans$		
	$\lvert t_A - t_B \rvert = 842,88 \, ans$	0.25	
	الجمجمتان لا تنتميان لنفس الحقبة الزمنية.		
	4) $E_l(^{14}_{6}C) = \Delta m C^2$	0.25	
	$E_l(^{14}_{6}C) = ([6 \times 1,00728 + (14-6) \times 1,00866] - 14,00324) C^2 \times \frac{931,5}{C^2}$	0.25	0.75
	$E_l = 102,2 MeV = 102,2 \times 10^6 eV$	0.25	
	التمرين الثاني : (04 نقاط)		
	1/ $C_6H_5COOH(aq) + HO^-(aq) = C_6H_5COO^-(aq) + H_2O(l)$	0.5	
	ب/ نقطة التكافؤ: $E(10mL ; 8)$	0.5	

الجديد و الحصري فقط على موقع الأستاذ Lotphilosophie
sites.google.com/site/lotphilosophie

المحاور	عناصر الإجابة	مجزأة	مجموع
	جـ/ عند التكافؤ : $C_aV_a = C_bV_{bE}$ ومنه: $C_a = \frac{C_b.V_{bE}}{V_a}$	2×0.25	1.75
	$C_a = 2,0\times10^{-2} mol.L^{-1}$	0.25	
	2- حساب كمية مادة الأنواع الكيميائية:		
	$n_{(H_3O^+)} = 10^{-pH}\times(V_a+V_b) = 10^{-8}\times(50+10)10^{-3}$	0.25	
	$n_{(H_3O^+)} = 6\times10^{-10} mol$	0.25	
	$n_{(HO^-)} = 10^{(8-14)}\times(50+10)10^{-3}$	0.25	1.75
	$n_{(HO^-)} = 6\times10^{-8} mol \Leftrightarrow 10^{-3} - x_E = 6\times10^{-8} \Rightarrow x_E = 10^{-3} mol$	2×0.25	
	$n_{(C_6H_5COO^-)} = n_{Na^+} = x_E = 10^{-3} mol$	0.25	
	$n_{(C_6H_5COOH_{(aq)})} = C_aV_a - x_E = 10^{-3} - x_E = 0$	0.25	
	3- الكاشف المناسب هو فينول فتاليين لأن مجال تغيره اللوني يحوي قيمة pH نقطة التكافؤ.	0.5	0.5
	التمرين الثالث (04 نقاط)		
	1) ثابت الزمن $\tau = 1ms$	0.5	
	وهو الزمن اللازم لتشحن المكثفة بنسبة 63% من شحنتها العظمى.	0.5	02
	سعة المكثفة $\tau = RC \Rightarrow C = \frac{\tau}{R} = \frac{10^{-3}}{100}$	0.5	
	$C = 10^{-5} F = 10\mu F$	0.5	
	2) شحن المكثفة عند النظام الدائم:		
	$Q_{max} = q_0 = E.C$	0.5	01
	$q_0 = 5.10^{-5} Coulomb$	0.5	
	3) $\tau' = 2\tau \Leftarrow \begin{matrix}\tau = RC \\ \tau' = 2RC\end{matrix}$ ومنه $\tau' = 2ms$	2×0.5	01
	التمرين الرابع (04 نقاط)		
	1- القانون الثاني لنيوتن في مرجع غاليلي : $\sum \vec{F}_{ext} = m.\vec{a}$	0.25	
	$\vec{P} = m.\vec{a}$	0.25	2.5
	على $(\overrightarrow{ox})$: $a_x = 0 \Leftarrow$ ح.م.منتظمة معادلتها: $x = v_0\cos\alpha.t$	3×0.25	
	على $(\overrightarrow{oy})$: $a_y = -g \Leftarrow$ ح.م.م. بإنتظام معادلتها: $y = -\frac{1}{2}gt^2 + v_0\sin\alpha t$	3×0.25	
	معادلة المسار : $y = \frac{-g}{2v_0^2\cos^2\alpha}x^2 + \tan\alpha.x$ وهو عبارة عن قطع مكافئ.	0.5	

32
الجديد و الحصري فقط على موقع الأستاذ Lotphilosophie
sites.google.com/site/lotphilosophie

المحاور	عناصر الإجابة	مجزأة	مجموع
	2- يسجل الهدف لما: $x = d$ و $y = h$	0.25	
	$h = \frac{-g}{2v_0^2 \cos^2 \alpha} d^2 + \tan \alpha . d$	0.25	01
	بالتعويض نجد: $v_0 \simeq 18,6 ms^{-1}$		
	$x = v_0 \cos \alpha t = d$	2×0.25	
	$t = 1,55s$		
	$v_A = \sqrt{(v_0 \cos \alpha)^2 + (-gt + v_0 \sin \alpha)^2}$		
	$v_A = 17,26 m.s^{-1}$		
	3- يسجل الهدف لما: $x = d$ و $y = 0$		
	$0 = \frac{-g}{2v_0^2 \cos^2 \alpha} d^2 + \tan \alpha . d$	0.25	0.5
	$v_0' = 17 ms^{-1}$	0.25	
	التمرين التجريبي: (04 نقاط).		
	1-		
	$Zn(s) = Zn^{2+}(aq) + 2e^-$	0.25	
	$I_2(aq) + 2e^- = 2I^-(aq)$	0.25	0.75
	$Zn(s) + I_2(aq) = Zn^{2+}(aq) + 2I^-(aq)$	0.25	
	2- أ) تعريف السرعة الحجمية: هي سرعة التفاعل من أجل وحدة الحجم للوسط التفاعلي.	0.5	
	$v = \frac{1}{V} \frac{dx}{dt}$	0.25	
	$v = -\frac{d[I_2]}{dt}$	0.25	
	حساب قيمة السرعة الحجمية المتوسطة:		1.75
	$v_1 = 27,5 mmol.L^{-1}.min^{-1}$: $[0 ، 0,4 min]$	0.25	
	$v_2 = 12,5 mmol.L^{-1}.min^{-1}$: $[0,4 min ، 0,8 min]$	0.25	
	ب) السرعة الحجمية تتناقص مع مرور الزمن بسبب تناقص التركيز وبالتالي نقص الاصطدامات الفعالة .	0.25	
	3- سرعة التفاعل تصبح أقل لأن تركيز المادة المتفاعلة أصبح أقل بفعل التمديد.	0.5	0.5
	4- سرعة التفاعل تصبح أكبر لأن رفع درجة الحرارة يزيد الاصطدامات الفعالة.	0.5	0.5
	5- العوامل الحركية هي :		
	- التركيز المولي للمتفاعلات.	0.5	0.5
	- درجة الحرارة.		

الجديد و الحصري فقط على موقع الأستاذ Lotphilosophie
sites.google.com/site/lotphilosophie